Name: _____ Datum: _____

Tildas Rechen-Abenteuer

Hilf Tilda und Bruno! Löse alle Stationen und finde den Schatzcode.



1 Wie spät ist es?

Schreibe die Uhrzeit auf. Der kurze rote Zeiger zeigt die Stunden.



☐ : ☐ Uhr



☐ : ☐ Uhr



☐ : ☐ Uhr



☐ : ☐ Uhr



☐ : ☐ Uhr



☐ : ☐ Uhr

Tilda ruft:

Bruno hat wieder zu schnell gerechnet. Zeig ihm, wie es richtig geht!



2 Zeichne die Zeiger

Male den kurzen und den langen Zeiger ein.

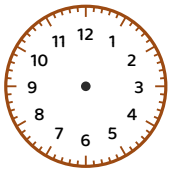

Schule beginnt
7:15 Uhr

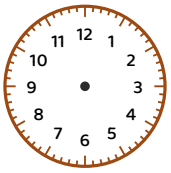

Pinguin-Bad
3:30 Uhr



Oma kommt
3:30 Uhr

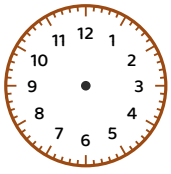

Große Pause
10:15 Uhr

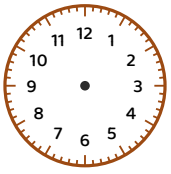

Mittagessen
12:00 Uhr



Kino
6:30 Uhr

Schatzcode

Die Lösung der letzten Aufgabe öffnet das Schloss. Trag sie hier ein!

Geschafft! Wie hat dir das Blatt gefallen?

Male so viele Sterne aus, wie du magst:

Platz zum Rechnen

Name: _____ Datum: _____

Tildas Rechen-Abenteuer

Lösungen · Wie spät ist es? & Zeichne die Zeiger



1 Wie spät ist es?

Schreibe die Uhrzeit auf. Der kurze rote Zeiger zeigt die Stunden.



10 : **15** Uhr



11 : **15** Uhr



5 : **45** Uhr



11 : **30** Uhr



9 : **15** Uhr



11 : **45** Uhr

2 Zeichne die Zeiger

Male den kurzen und den langen Zeiger ein.



Schule beginnt
7:15 Uhr



Pinguin-Bad
3:30 Uhr



Oma kommt
3:30 Uhr



Große Pause
10:15 Uhr



Mittagessen
12:00 Uhr



Kino
6:30 Uhr

Schatzcode

Die Lösung der letzten Aufgabe öffnet das Schloss. Trag sie hier ein!

6 **3** **0**