Name: _____ Datum: _____

Tildas Rechen-Abenteuer

Hilf Tilda und Bruno! Löse alle Stationen und finde den Schatzcode.



1 Wie spät ist es?

Schreibe die Uhrzeit auf. Der kurze rote Zeiger zeigt die Stunden.



☐ : ☐ Uhr



☐ : ☐ Uhr



☐ : ☐ Uhr



☐ : ☐ Uhr



☐ : ☐ Uhr



☐ : ☐ Uhr

Tilda ruft:

Bruno hat wieder zu schnell gerechnet. Zeig ihm, wie es richtig geht!



2 Zeichne die Zeiger

Male den kurzen und den langen Zeiger ein.

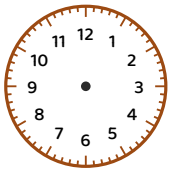

Pinguin-Bad
12:00 Uhr

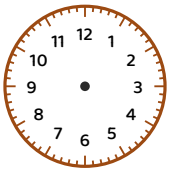

Mittagessen
1:00 Uhr



Schlafenszeit
7:00 Uhr

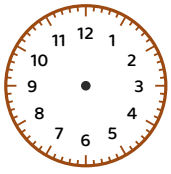

Training
3:00 Uhr

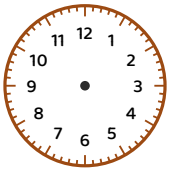

Löwen-Fütterung
2:00 Uhr



Oma kommt
5:00 Uhr

Schatzcode

Die Lösung der letzten Aufgabe öffnet das Schloss. Trag sie hier ein!

Geschafft! Wie hat dir das Blatt gefallen?

Male so viele Sterne aus, wie du magst:

Platz zum Rechnen

Name: _____ Datum: _____

Tildas Rechen-Abenteuer

Lösungen · Wie spät ist es? & Zeichne die Zeiger



1 Wie spät ist es?

Schreibe die Uhrzeit auf. Der kurze rote Zeiger zeigt die Stunden.



2 : 00 Uhr



4 : 00 Uhr



6 : 00 Uhr



10 : 00 Uhr



5 : 00 Uhr



12 : 00 Uhr

2 Zeichne die Zeiger

Male den kurzen und den langen Zeiger ein.



Pinguin-Bad
12:00 Uhr



Mittagessen
1:00 Uhr



Schlafenszeit
7:00 Uhr



Training
3:00 Uhr



Löwen-Fütterung
2:00 Uhr



Oma kommt
5:00 Uhr

Schatzcode

Die Lösung der letzten Aufgabe öffnet das Schloss. Trag sie hier ein!

5 0 0